Arbeitsblätter zum Ausdrucken von sofatutor.com

Norden, Osten, Süden, Westen - Die Himmelsrichtungen

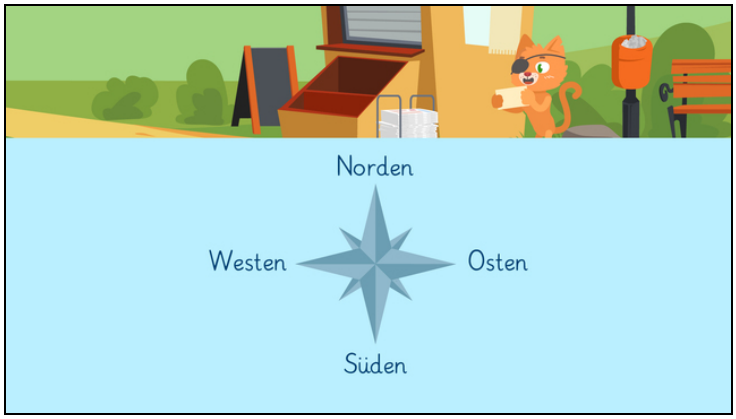

1 **Was ist eine Windrose?**

2 Welche Himmelsrichtungen gibt es?

3 Wie sind die Himmelsrichtungen an der Windrose angeordnet?

4 Wo ist die Sonne zu welcher Tageszeit?

5 In welcher Richtung ist Westen?

6 Wohin zeigen die Himmelsrichtungen?

\+ mit vielen Tipps, Lösungsschlüsseln und Lösungswegen zu allen Aufgaben

Das komplette Paket, **inkl. aller Aufgaben, Tipps, Lösungen und Lösungswege** gibt es für alle Abonnenten von sofatutor.com

© 2023 sofatutor GmbH, Berlin. Alle Rechte vorbehalten. V25404

sofatutor.ch
Bessere Noten in Schule & Uni

Was ist eine Windrose?

Wähle die richtige Antwort aus.

A

eine besondere Rose

☐

B

ein besonderer Stern

☐

C

ein Messgerät

☐

D



eine Figur zur Anzeige der Himmelsrichtungen

☐

© 2023 sofatutor GmbH, Berlin. Alle Rechte vorbehalten. V25404 | E56051

sofatutor.ch
Bessere Noten in Schule & Uni

Unsere Tipps für die Aufgaben

1 von 6

Was ist eine Windrose?

1. Tipp

Windrosen findest du häufig auf **Karten** oder in **Kompassen**.

© 2023 sofatutor GmbH, Berlin. Alle Rechte vorbehalten. V25404

sofatutor.ch
Bessere Noten in Schule & Uni

Lösungen und Lösungswege für die Aufgaben

1 von 6

Was ist eine Windrose?

Lösungsschlüssel: D

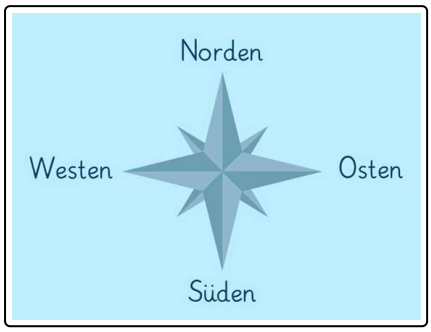

Die **Windrose** ist eine Figur, welche die **Himmelsrichtungen** anzeigt. Du findest sie zum Beispiel auf **Karten** oder in **Kompassen**.

© 2023 sofatutor GmbH, Berlin. Alle Rechte vorbehalten. V25404

sofatutor.ch
Bessere Noten in Schule & Uni