Arbeitsblätter zum Ausdrucken von sofatutor.com

Was ist eine Seitenfläche?

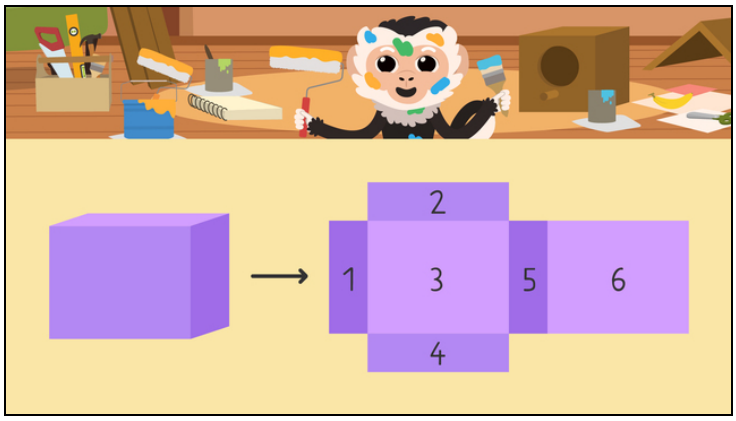

1 **Welche Formen haben die Seitenflächen der Pyramide?**

2 Wie heißen die Flächen eines geometrischen Körpers?

3 Wie viele Seitenflächen hat der Körper?

4 Welche Körper haben gekrümmte Seitenflächen?

5 Wie viele Flächen haben die Körper?

6 Wie viele Seitenflächen hat der zusammengesetzte Körper?

\+ mit vielen Tipps, Lösungsschlüsseln und Lösungswegen zu allen Aufgaben

Das komplette Paket, **inkl. aller Aufgaben, Tipps, Lösungen und Lösungswege** gibt es für alle Abonnenten von sofatutor.com

Schau das Video zur Aufgabe: https://www.sofatutor.ch/v/6rk/aRK

© 2022 sofatutor GmbH, Berlin. Alle Rechte vorbehalten. V24758

Welche Formen haben die Seitenflächen der Pyramide?

Wähle die passenden Antworten aus.



- [ ] A Quadrat
- [ ] B Kreis
- [ ] C Dreieck
- [ ] D Würfel

© 2022 sofatutor GmbH, Berlin. Alle Rechte vorbehalten. V24758 | E51610

sofatutor.ch
Bessere Noten in Schule & Uni

Unsere Tipps für die Aufgaben

1 von 6

Welche Formen haben die Seitenflächen der Pyramide?

1. Tipp

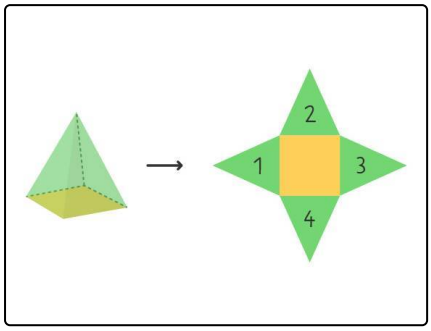

Auch die **Grundfläche** der Pyramide ist eine Seitenfläche. Sie hat jedoch eine andere Form als die anderen Seitenflächen.

© 2022 sofatutor GmbH, Berlin. Alle Rechte vorbehalten. V24758

sofatutor.ch
Bessere Noten in Schule & Uni

Lösungen und Lösungswege für die Aufgaben

1 von 6

Welche Formen haben die Seitenflächen der Pyramide?

Lösungsschlüssel: A, C



Die **grünen Seitenflächen der Pyramide** haben die Form von **Dreiecken**.

Die **gelbe Grundfläche** ist auch eine Seitenfläche. Sie hat die Form eines **Quadrats**.

© 2022 sofatutor GmbH, Berlin. Alle Rechte vorbehalten. V24758

sofatutor.ch
Bessere Noten in Schule & Uni